Вопросы мониторинга образовательных результатов 1 полугодия 2022-2023 учебного года для обучающихся туристских объединений 2-4 года обучения

1. Вопросы безопасности в спортивном туризме

1. Основная причина возникновения чрезвычайных ситуаций на занятиях в походе:
   а) неблагоприятные метеорологические условия;
   б) недостаток снаряжения;
   в) слабая дисциплина в группе.
2. Дисциплина в походе – это:
   а) беспрекословное подчинение руководителю группы, выполнение инструктажа по технике безопасности;
   б) принятие собственных решений, основываясь на здравый смысл;
   в) выполнение распоряжений опытных участников группы.
3. Самое большое нарушение дисциплины в походе:
   а) отставание от группы; б) опоздание к приему пищи; в) самовольные действия туристов.
4. На каком костре можно быстро вскипятить воду:
   а) «Шалаш»; б) «Нодья»; в) «Таёжный».
5. Ядовитые грибы при длительном кипячении:
   а) становятся пригодны в пищу; б) теряют половину своего яда; в) остаются опасными.
6. При движении группы вдоль шоссе необходимо:
   а) двигаться навстречу транспорту по левой стороне с дистанцией 2 метра;
   б) по ходу транспорта по правой стороне с дистанцией 2 метра;
   в) часть группы по правой стороне, часть по левой, чтобы не было толпы.
7. Какие действия у костра могут привести к травме (ожогу)?
   а) неблагоприятные метеорологические условия; б) махание горящей веткой; в) борьба за место у костра.
8. Какой минимальный диаметр веревки применяется для блокировки страховочной системы?
   а) 4 мм; б) 6 мм; в) 8 мм; г) 10 мм.
9. Расколоть полено безопаснее всего:
   а) поставив его на большой камень; б) поставив его на землю; в) поставив его на большой пень.
10. Как безопасно рубить сучья у лежащего дерева:
   а) стоять на той же стороне, что и ветки; б) стоять на другой стороне от веток; в) встать, пропустив дерево между ног.
11. Куда должен быть развернут лицом участник, обеспечивающий страховку переправляющегося по бревну?
   а) спиной к переправляющемуся; б) лицом к переправляющемуся; в) не имеет значения.
12. В каком виде дистанций по спортивному туризму необходима согласованная работа четырех участников?
   а) дистанция - личная; б) дистанция-связка; в) дистанция- группа
13. Для кого обязательно знание правил вида спорта «Спортивный туризм»?
   а) для спортсменов и представителей команд; б) для судей и организаторов; в) для спортсменов; г) для организаторов, судей, спортсменов и представителей.
14. Для каких препятствий используются вертикальные веревочные перила:
   а) река; б) болото; в) глубокий овраг; г) бурелом; д) обсыпной склон.
15. Прибор для измерения извилистых линий на картах, планах, чертежах
   а) курвиметр; б) компас; в) транспортир; г) барометр.
16. С какой областью не граничит Ярославская область:
   а) Московская; б) Тверская; в) Вологодская; г) Костромская; д) Калужская; е) Владимирская; ж) Ивановская.
17. В полдень Солнце находится на
   а) востоке; б) западе; в) на юге; г) на севере.
18. Обычно муравьи строят свои дома около пней, деревьев со стороны
   а) южной; б) западной; в) восточной; г) северной.

19. На плане местности указан именованный масштаб «в 1 см – 6 м». Ему соответствует численный масштаб

а) 1:6; б) 1:60; в) 1:600; г) 1:6000.

20. Длина моста на плане в масштабе 1: 800 составляет 2 см. Какова его длина на местности:
а) 10 м; б) 16 м; в) 80 м; г) 160 м.

Ответы к вопросам безопасности в спортивном туризме

1	2	3	4	5	6	7	8	9	10	11
в	а	в	а	в	а	б,в	г	в	б,в	б

12	13	14	15	16	17	18	19	20		
в	г	в,д	а	д	в	а	в	б		

2. Ориентирование

1. Какой из фрагментов правильно сориентирован?

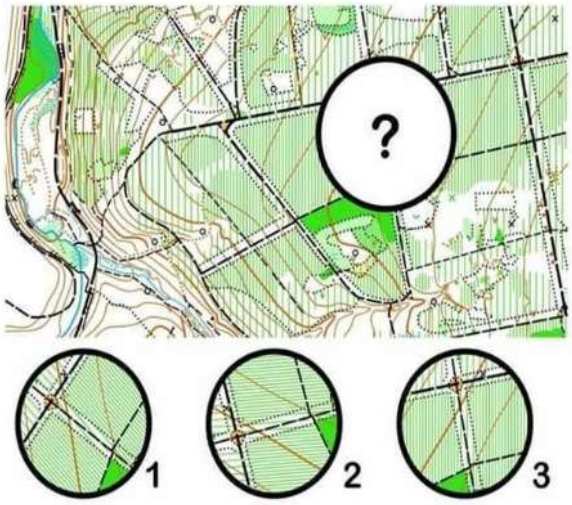

2. Какой из фрагментов правильно сориентирован?

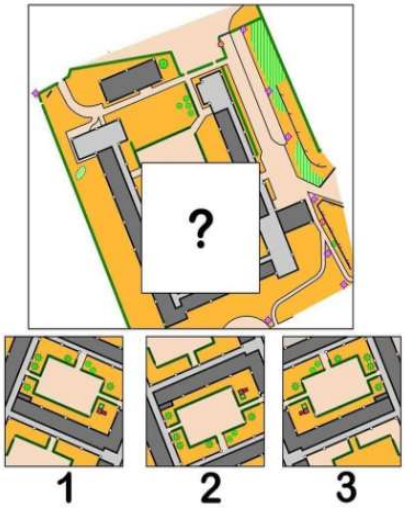

3. Какой контрольный пункт стоит выше остальных?

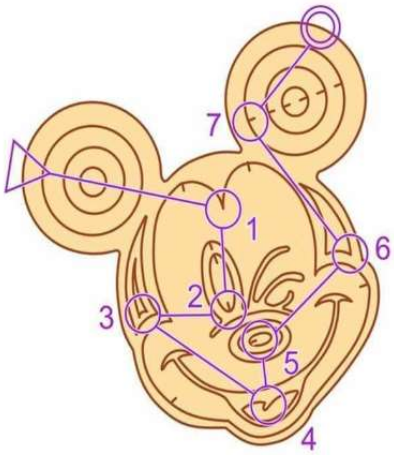

4. Какой профиль рельефа соответствует графическому изображению?

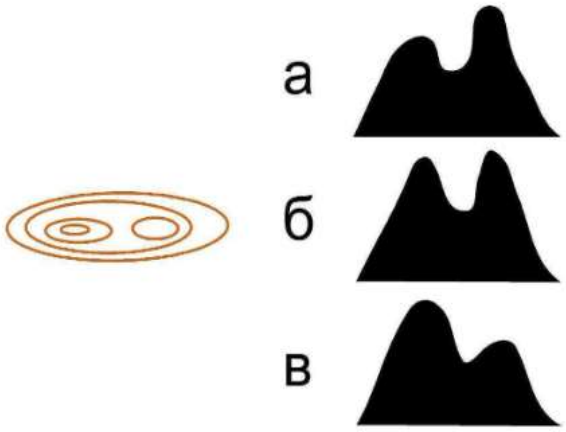

5. Какое графическое изображение рельефа соответствует профилю на местности?

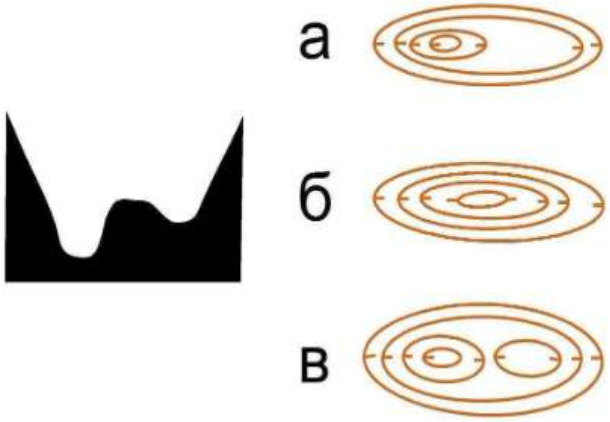

6. Какой фотографии соответствует КП № 1

7. Какому направлению соответствует азимут в 225°?

а. Северо-запад
б. Юго-запад
в. Юго-восток

8. Какая карта сориентирована по компасу?

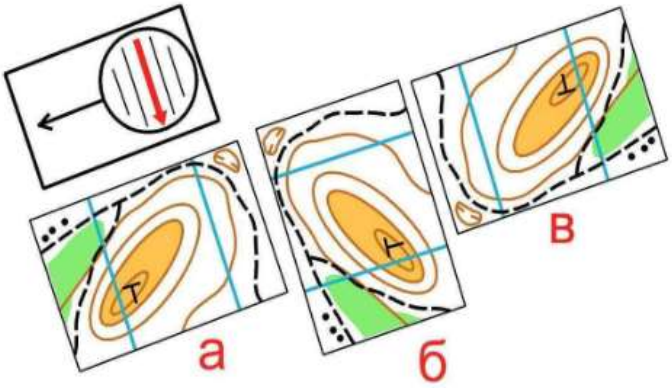

9. На какой КП придёт участник, если со старта будет двигаться на северо-запад?

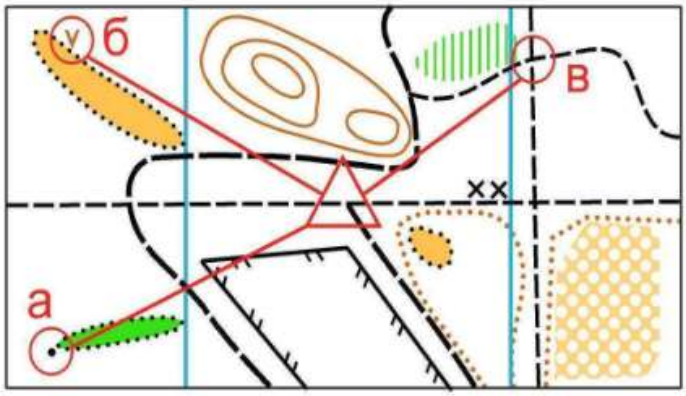

10. На какой КП придёт участник, если будет двигаться по азимуту 270°

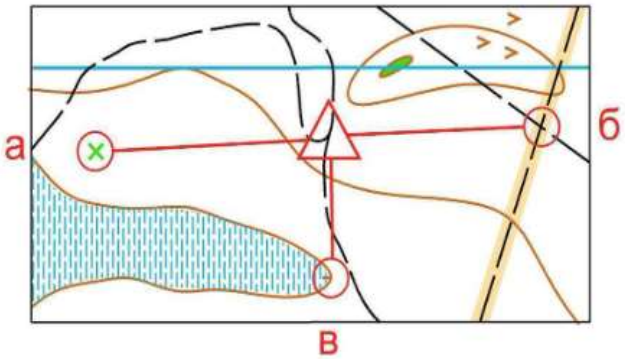

КЛЮЧ: **1**. З. **2.** 2. **3**. З**. 4**. В. **5**. В. **6**. F. **7**. Б**. 8**. В. **9**. Б. **10**. В.